Муниципальный этап Всероссийской олимпиады школьников в 2022-2023 учебном году

Предмет	*Класс*	*Дата*	*Время начала*	*Время окончания*
История	7	5 декабря 2022	11:00	12:30

Задание 1. Верны ли следующие утверждения? («Да» – «Нет»). Ответы внесите в таблицу.

Максимальный балл за задание –16

1. В период образования Священной Римской империи на Руси княжили княгиня Ольга и князь Святослав.
2. Жанна д'Арк и Дмитрий Донской были современниками.
3. Ирменская археологическая культура позднего бронзового века получила своё название благодаря расположенному у места первых раскопок посёлку Ирмень.
4. Юрий Долгорукий заложил не только будущую столицу России, но и Дмитров, Звенигород, Переславль.

Ответ:

1	2	3	4

Задание 2. В таблице перед вами перечень исторических событий (процессов). Выполните задания.

Максимальный балл за задание – 20

Перечень событий (процессов)

А) Невская битва (1240 г.)	Б) Крещение Руси (988 г.)
В) Битва на р. Калке (1223 г.)	Г) Междоусобная война в Московском княжестве (1425–1453 гг.)

1) Установите соответствие между данными событиями (процессами) и изображениями: к каждому событию (процессу) подберите по одному изображению. Ответ занесите в таблицу.

1)	

Предмет	*Класс*	*Дата*	*Время начала*	*Время окончания*
История	7	5 декабря 2022	11:00	12:30

2)	
3)	
4)	

Ответ:

А	Б	В	Г

2) Прочтите отрывок из исторического источника и определите, о каком из данных событий (процессов) он повествует. В ответе запишите букву, которой обозначено это событие (процесс).

«“Если не придет кто завтра на реку – будь то богатый, или бедный, или нищий, или раб, – будет мне врагом”. Услышав это, с радостью пошли люди, ликуя и говоря: “Если бы не было это хорошим, не приняли бы этого князь наш и бояре”. <...> Вошли в воду и стояли там одни до шеи, другие по грудь, молодые же у берега по грудь, некоторые держали младенцев, а уже взрослые бродили, попы же, стоя, совершали молитвы. И была видна радость на небе и на земле по поводу стольких спасаемых душ; а дьявол говорил, стеная: “Увы мне! Прогнан я отсюда! Здесь думал я обрести себе жилище, ибо здесь не было учения апостольского, не знали здесь Бога, но радовался я служению тех, кто служил мне. И вот уже побежден я невеждой, а не апостолами и не мучениками; не смогу уже царствовать более в этих странах”».

Ответ: _____

Задание 3. Рассмотрите схему и выполните задания.

Максимальный балл за задание – 12

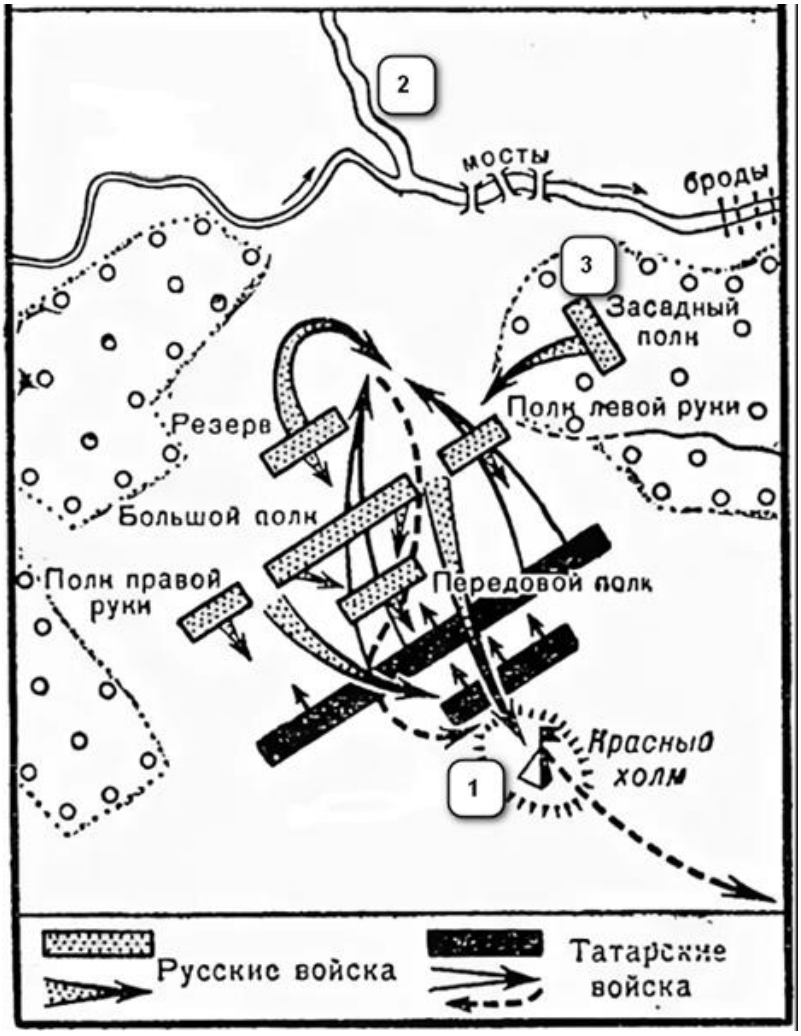

3.1. Назовите имя монгольского хана, ставка которого обозначена на схеме цифрой 1.
Ответ: _____

3.2. Укажите название реки, обозначенной на схеме цифрой 2, в честь которой получил прозвище князь, командовавший русскими войсками.
Ответ: _____

3.3. Назовите имя опытного воеводы, князя с Волыни, руководившего полком, обозначенным на карте цифрой 3.
Ответ: _____

Задание 4. Рассмотрите картины и выполните задания.

Максимальный балл за задание – 12

Цифра	Картина	Буква	Личность
1.		А	Марфа Борецкая
2.		Б	Летописец Нестор

3.		В	Княгиня Ольга
4.		Г	Князь Олег
		Д	Сергий Радонежский

4.1 Установите соответствие между картиной и личностью, на ней изображенной

Ответ:

Картина	**1**	**2**	**3**	**4**
Личность				

4.2 Укажите фамилию художника, который написал все выше представленные картины.

Ответ: _____

Задание 5. Перед вами картины, посвященные событиям Великой Отечественной войны. Подпишите под изображениями название битв/событий, которым они посвящены.

Максимальный балл за задание – 10

I

II

Задание 6. Отгадайте русские народные загадки о предметах быта.

Максимальный балл за задание – 12

1. Рыба в море – хвост на заборе.

Ответ: _____

2. Гибкий лес на плечи влез.

Ответ: _____

3. Небо да земля, в серёдке огонь да вода

Ответ: _____

Задание 7. Прочтите отрывок из исторического источника и выполните задания.

Максимальный балл за задание – 18

«От Едигея поклон <...>, да и много поклонов. Как те поклоны придут к тебе, царёв ярлык: слышанье учинилось таковое, что неправо у тебя чинят в городах, послы царёвы и купцы из Орды приезжают, а вы послов и купцов на смех поднимаете, великую обиду и истому им чините – это недобро. А прежде вы улусом были царёвым, и страх держали, и пошлины платили, и послов царёвых чтили, и купцов держали без истомы и без обиды. <...> Было бы лучше, если бы дань была отдана по старине и по правде...».

7.1. Назовите имя русского князя, которому адресовано послание от хана Едигея.

Ответ: _____

7.2. Укажите век, к которому относятся события, описываемые в историческом источнике.

Ответ: _____

7.3. Укажите две причины недовольства Едигея подданными князя, названные в тексте.

Ответ:

_____
_____
_____
_____
_____
_____
_____
_____
_____
_____
_____

Олимпиада по истории, 7 класс (100 б.)

Задание 1. Верны ли следующие утверждения? («Да» – «Нет»). Ответы внесите в таблицу.

1. В период образования Священной Римской империи на Руси княжили княгиня Ольга и князь Святослав.
2. Жанна д'Арк и Дмитрий Донской были современниками.
3. Ирменская археологическая культура позднего бронзового века получила своё название благодаря расположенному у места первых раскопок посёлку Ирмень.
4. Юрий Долгорукий заложил не только будущую столицу России, но и Дмитров, Звенигород, Переславль.

Ответ:

1	2	3	4
Да	Нет	Да	Да

По 4 балла за каждый правильный ответ. Итого: 16 баллов

Задание 2. В таблице перед вами перечень исторических событий (процессов). Выполните задания.

Перечень событий (процессов)

А) Невская битва (1240 г.)	Б) Крещение Руси (988 г.)
В) Битва на р. Калке (1223 г.)	Г) Междоусобная война в Московском княжестве (1425–1453 гг.)

1) Установите соответствие между данными событиями (процессами) и изображениями: к каждому событию (процессу) подберите по одному изображению. Ответ занесите в таблицу.

1) 	**2)**
3) 	**4)**

Ответ:

А	Б	В	Г
4	3	1	2

По 4 балла за каждый правильный ответ. Итого: 16 баллов

2) Прочтите отрывок из исторического источника и определите, о каком из данных событий (процессов) он повествует. В ответе запишите букву, которой обозначено это событие (процесс).

«“Если не придет кто завтра на реку – будь то богатый, или бедный, или нищий, или раб, – будет мне врагом”. Услышав это, с радостью пошли люди, ликуя и говоря: “Если бы не было это хорошим, не приняли бы этого князь наш и бояре”. <...> Вошли в воду и стояли там одни до шеи, другие по грудь, молодые же у берега по грудь, некоторые держали младенцев, а уже взрослые бродили, попы же, стоя, совершали молитвы. И была видна радость на небе и на земле по поводу стольких спасаемых душ; а дьявол говорил, стеная: “Увы мне! Прогнан я отсюда! Здесь думал я обрести себе жилище, ибо здесь не было учения апостольского, не знали здесь Бога, но радовался я служению тех, кто служил мне. И вот уже побежден я невеждой, а не апостолами и не мучениками; не смогу уже царствовать более в этих странах”».

Ответ: Б (4 балла)

Итого за все задание: 20 баллов

Задание 3. Рассмотрите схему и выполните задания.

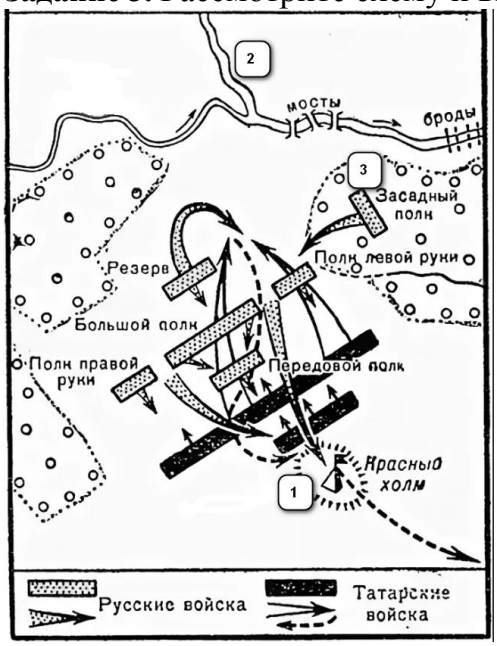

3.1. Назовите имя монгольского хана, ставка которого обозначена на схеме цифрой 1.

Ответ: Мамай (4 балла)

3.2. Укажите название реки, обозначенной на схеме цифрой 2, в честь которой получил прозвище князь, командовавший русскими войсками.

Ответ: Дон (4 балла)

3.3. Назовите имя опытного воеводы, князя с Волыни, руководившего полком, обозначенным на карте цифрой 3.

Ответ: Дмитрий Боброк, Дмитрий Боброк-Волынский (4 балла)

Итого: 12 баллов за все задание.

Задание 4. Рассмотрите картины и выполните задания.

Цифра	Картина	Буква	Личность

1.		А	Марфа Борецкая
2.		Б	Летописец Нестор
3.		В	Княгиня Ольга
4.		Г	Князь Олег
		Д	Сергий Радонежский

4.1 Установите соответствие между картиной и личностью, на ней изображенной

Картина	**1**	**2**	**3**	**4**
Личность	Д	Г	Б	В

По 2 баллу за каждую правильно заполненную ячейку. Итого: 8 баллов

4.2 Укажите фамилию художника, который написал все выше представленные картины.
Ответ: Виктор Михайлович Васнецов **(4 балла)**
Итого: 12 баллов за все задание

Задание 5. Перед вами картины, посвященные событиям Великой Отечественной войны. Подпишите под изображениями название битв/событий, которым они посвящены.

I	II
Сражение в районе деревни Прохоровки / Курская Битва / Битва на Курской дуге	**Защита Брестской крепости**

По 5 балла за каждую правильно названную битву. Итого: 10 баллов

Задание 6. Отгадайте русские народные загадки о предметах быта.

1. Рыба в море – хвост на заборе.

Ответ: черпак/ковш/половник

2. Гибкий лес на плечи влез.

Ответ: коромысло

3. Небо да земля, в серёдке огонь да вода.

Ответ: самовар

По 4 балла за каждое верно отгаданное слово. Итого: 12 баллов

Задание 7. Прочитайте отрывок из исторического источника и выполните задание.

«От Едигея поклон <...>, да и много поклонов. Как те поклоны придут к тебе, царёв ярлык: слышанье учинилось таковое, что неправо у тебя чинят в городах, послы царёвы и купцы из Орды приезжают, а вы послов и купцов на смех поднимаете, великую обиду и истому им чините – это недобро. А прежде вы улусом были царёвым, и страх держали, и пошлины платили, и послов царёвых чтили, и купцов держали без истомы и без обиды. <...> Было бы лучше, если бы дань была отдана по старине и по правде...».

1. Назовите имя русского князя, которому адресовано послание от хана Едигея.

Ответ: Василий I **(4 балла).**

2. Укажите век, к которому относятся события, описываемые в историческом источнике.

Ответ: XV век **(4 балла).**

3. Укажите две причины недовольства Едигея подданными князя, названные в тексте.

Ответ: 1) послов и купцов на смех поднимаете, великую обиду и истому им чините; 2) а прежде вы улусом были царёвым, и страх держали, и пошлины платили, и послов царёвых чтили, и купцов держали без истомы и без обиды; 3) было бы лучше, если бы дань была отдана по старине и по правде. **По 5 баллов за каждую названную причину. Итого: 10 баллов**

ИТОГО: 18 балл за все задание.